| 4年 | 9 | そろばん | 組　　番<br>名前（　　） |
|---|---|---|---|

**チェック** 次の問いに答えましょう。

① 次の数をよみましょう。

㋐ 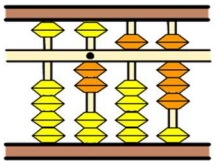

㋑ 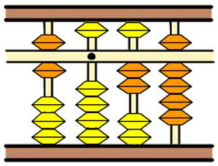

（　2．58　）（　60．29　）

② そろばんでは、おつりを調べるのにも役立ちます。Aさんが買い物をした代金を、そろばんにおくと、右の図のようになります。1000円だしたときのおつりは、いくらか答えましょう。

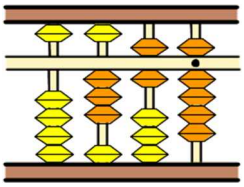

（　631　）円

**問題**

このみさんとけんたさんは、そろばんを使って小数の計算をしています。

このみ

3．47＋5．23をそろばんで計算します。

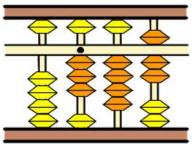

①3.47を入れる。

5をたすには

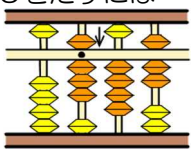

②5を入れる。

0．2をたすには

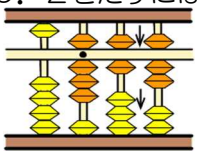

③0．5を入れて、0．3をはらう。

0．03をたすには

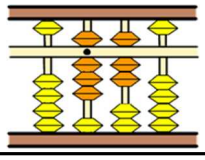

④

このみさんが、「0．03をたす」の④で、そろばんのたまを入れたりはらったりしたあとにできた、そろばんの図を大きくすると、右のようになります。

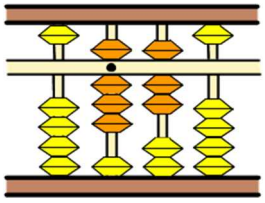

（1）右のそろばんの図の数を読んだとき、正しく読めているものを、次のア～エから1つえらんで、記号に○をつけましょう。

ア　0．87　　イ　8．70　　ウ　8．7　　エ　0．870

（2）このみさんが④でおこなったことを、①、②、③を参考にしてかきましょう。

（例）0．07をはらって、0．1を入れる。

けんたさんは、そろばんで6．52－3．85を計算しました。

けんた

①6.52を入れる

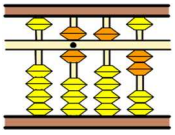

㋐3をひく

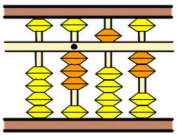

㋑0．8をひく

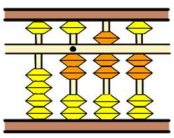

㋒0．05をひく

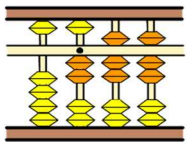

答え　2．77

けんたさんは、先生に答えがまちがえていると言われ、たしかめてみると、㋐、㋑、㋒のあるだんかいで、まちがえていることに気づきました。まちがえているのは㋐～㋒のどのだんかいか答えましょう。また、まちがえたわけを答えましょう。

まちがえているだんかい（　㋒　）

（例）0．05を入れる前に、$\frac{1}{10}$の位から0．1をはらうのをわすれているから。